KONIK SZACHOWY

KONKURS SZACHOWY – OGÓLNOPOLSKI –

Konkurs Konik Szachowy

Kategoria Wieża

kl. 7 i 8 SP. Przed Tobą 30 zadań, po 10 za 3,4 i 5 pkt. Na starcie otrzymujesz 30 pkt, za nieprawidłową odpowiedź odejmowana jest ¼ punktów przysługujących za zadanie, brak odpowiedzi oznacza 0 punktów. Maksymalny wynik do zdobycia to 150pkt.

KONIK SZACHOWY **30 PAŹDZIERNIKA 2025**

ZADANIE NR 1

Który ruch czarnych prowadzi do zdobycia przez nie hetmana?

A	B	C	D	E
Gf4	Hf4	Hh4	Hd6	G:d4



ZADANIE NR 2

Który ruch czarnych prowadzi do zdobycia przez nie hetmana?

A	B	C	D	E
żaden	Wa8	W:c2	Ha3	Hc3



ZADANIE NR 3

Białe mogą dać nieuchronnego mata w drugim posunięciu po ruchu?

A	B	C	D	E
żadnym	Hf5	Hf6	Hf7	Gh6



ZADANIE NR 4

Jaki jest najlepszy ruch białych?

A	B	C	D	E
H:c3	g:f5	Hh5	0-0-0	0-0



ZADANIE NR 5

Jaki jest najlepszy ruch białych?

A	B	C	D	E
Wd8	g4	Wd6	Wd3	Wb5



ZADANIE NR 6

Jaki jest najlepszy ruch białych?

A	B	C	D	E
S:f7	H:f7	He5	Hb5	Hd1



KARTA ZADAŃ TESTOWA ● KARTA ZADAŃ TESTOWA ● KARTA ZADAŃ TESTOWA ● KARTA ZADAŃ TESTOWA ●

KARTA ZADAŃ TESTOWA ● KARTA ZADAŃ TESTOWA ● KARTA ZADAŃ TESTOWA ● KARTA ZADAŃ TESTOWA ●

KONIK SZACHOWY

Kategoria PIONEK

ZADANIE NR 7

Który ruch czarnych prowadzi do zdobycia przez nie co najmniej skoczka?

A	B	C	D	E
h4	G:d4	e5	H:f4	Sh7



ZADANIE NR 8

Jaki jest najlepszy ruch czarnych?

A	B	C	D	E
W:f3	Wfg8	Gf4	Wb8	Wf4



ZADANIE NR 9

W ilu ruchach białe grając najsilniej dadzą mata?

A	B	C	D	E
<4	4	3	2	1



ZADANIE NR 10

Który ruch białych prowadzi do zdobycia przez nie co najmniej wieży?

A	B	C	D	E
Wc8	H:b7	Hc8	Wc7	żaden



ZADANIE NR 11

Który ruch czarnych prowadzi do zdobycia przez nie gońca i wygranej pozycji?

A	B	C	D	E
Wd3	W:f4	e3	Gg5	żaden



ZADANIE NR 12

Jaki jest najlepszy ruch białych?

A	B	C	D	E
W:f6	Se7	H:e4	Scd4	Sed4



ZADANIE NR 13

Jaki jest najlepszy ruch białych?

A	B	C	D	E
W:b7	W:c3	W:e2	G:d5	Web1



ZADANIE NR 14

Jaki jest najlepszy ruch czarnych?

A	B	C	D	E
Sf3	Wab8	We8	W:d1	Sg4



KONIK SZACHOWY

Kategoria PIONEK

ZADANIE NR 15

Jaki jest najlepszy ruch czarnych?

A	B	C	D	E
Wc8	Hf4	h4	H:c2	Hd4



ZADANIE NR 16

Które poświęcenie białego prowadzi do jego wygranej?

A	B	C	D	E
Sh6	Hh7	Sd6	Se7	Sd4



ZADANIE NR 17

Jaki jest najlepszy ruch białych?

A	B	C	D	E
We6	g:f3	G:g7	Hc3	H:h6



ZADANIE NR 18

Który ruch białych prowadzi do zdobycia przez nie co najmniej wieży?

A	B	C	D	E
b7	Wd8	Kd2	We8	żaden



ZADANIE NR 19

Jaki jest najlepszy ruch czarnych?

A	B	C	D	E
Wb8	Sb4	Sc5	Se4	Hc8



ZADANIE NR 20

Który ruch czarnych prowadzi do zdobycia przez nie przewagi gońca?

A	B	C	D	E
e3	We8	W:a7	Wd8	żaden



ZADANIE NR 21

Który ruch czarnych prowadzi do zdobycia przez nie gońca?

A	B	C	D	E
Hd1	Hc8	Hc7	Hd4	żaden



ZADANIE NR 22

Która obrona przed szachem jest dla czarnego najlepsza?

A	B	C	D	E
Ke7	Hc6	Wb6	Sb6	Kd5



KONIK SZACHOWY

Kategoria PIONEK

ZADANIE NR 23

Jaki jest najlepszy ruch białych?

A	B	C	D	E
Ha5	Hd2	Gb6	H:c8	Ha1



ZADANIE NR 24

Jaki jest najlepszy ruch białych?

A	B	C	D	E
G:e8	Gh5	Gd5	Wf3	Wf4



ZADANIE NR 25

Który z wskazanych to najgorszy ruch białych przegrywający forsownie najdalej w 3 ruchach?

A	B	C	D	E
f4	Kf1	0-0	Se2	H:d4



ZADANIE NR 26

Jaki jest najlepszy ruch czarnych?

A	B	C	D	E
Wd4	Hg7	H:b4	Wdd2	Hd2



ZADANIE NR 27

Jaki jest najlepszy ruch białych?

A	B	C	D	E
Hd8	Wa7	Wa6	W:c8	c6



ZADANIE NR 28

Jaki jest najlepszy ruch czarnych?

A	B	C	D	E
Kg2	g3	Ke4	a5	Kf4



ZADANIE NR 29

Jaki jest najlepszy ruch czarnych?

A	B	C	D	E
Sd4	Sc7	Gd8	G:b5	Hd6



ZADANIE NR 30

Jaki jest najlepszy ruch czarnych?

A	B	C	D	E
d:e3	Wf8	H:e3	Hh5	He6

