KONKURS SZACHOWY – OGÓLNOPOLSKI –

Konkurs Konik Szachowy

Kategoria Wieża

Przed Tobą 30 zadań, po 10 za 3,4 i 5 pkt, brak lub niepoprawna odpowiedź oznacza 0 punktów.
Maksymalny wynik do zdobycia to 120 pkt.

KONIK SZACHOWY EXTRA

KARTA ZADAŃ TESTOWA ● KARTA ZADAŃ TESTOWA ● KARTA ZADAŃ TESTOWA ● KARTA ZADAŃ TESTOWA ●

ZADANIE NR 1

Jaki jest najlepszy ruch czarnych?



ZADANIE NR 2

Który ruch czarnych prowadzi do zdobycia przez nie przewagi materialnej?



ZADANIE NR 3

Które poświęcenie czarnego prowadzi do jego wygranej?



ZADANIE NR 4

Jaki jest najlepszy ruch czarnych?



ZADANIE NR 5

Jaki jest najlepszy ruch czarnych?



ZADANIE NR 6

Przy najlepszej grze obu stron, po jakim ruchu białych, dadzą one mata w 2-im posunięciu?



KONIK SZACHOWY EXTRA



Kategoria WIEŻA

ZADANIE NR 7

Jaki jest najlepszy ruch białych?



ZADANIE NR 8

Który ruch czarnych prowadzi do zdobycia przez nie co najmniej gońca?



ZADANIE NR 9

Jaki jest najlepszy ruch czarnych?



ZADANIE NR 10

Jaki jest najlepszy ruch czarnych?



ZADANIE NR 11

Jaki jest najlepszy ruch białych?



ZADANIE NR 12

Który ruch białych prowadzi do zdobycia przez nie co najmniej gońca?



ZADANIE NR 13

Który ruch białych prowadzi do zdobycia przez nie przewagi materialnej?



ZADANIE NR 14

Jaki jest najlepszy ruch białych?



KARTA ZADAŃ TESTOWA ● KARTA ZADAŃ TESTOWA ● KARTA ZADAŃ TESTOWA ● KARTA ZADAŃ TESTOWA ●

KONIK SZACHOWY EXTRA



Kategoria WIEŻA

ZADANIE NR 15

Jaki jest najlepszy ruch białych?



ZADANIE NR 16

Jak najlepiej białe powinny zareagować na szacha?



ZADANIE NR 17

Który ruch białych prowadzi do zdobycia przez nie co najmniej skoczka?



ZADANIE NR 18

Który ruch czarnych prowadzi do zdobycia przez nie wieży przewagi?



ZADANIE NR 19

Jaki jest najlepszy ruch czarnych?



ZADANIE NR 20

Które poświęcenie białego prowadzi do jego przewagi?



ZADANIE NR 21

Jaki jest najlepszy ruch białych?



ZADANIE NR 22

Jaki jest najlepszy ruch białych?



KARTA ZADAŃ TESTOWA ● KARTA ZADAŃ TESTOWA ● KARTA ZADAŃ TESTOWA ● KARTA ZADAŃ TESTOWA ●

KONIK SZACHOWY EXTRA



Kategoria WIEŻA

ZADANIE NR 23

Przy najlepszej grze obu stron, po jakim ruchu białych, dadzą one mata w 3-im posunięciu?



ZADANIE NR 24

Jaki jest nJaki jest najlepszy ruch czarnych?



ZADANIE NR 25

Jaki jest najlepszy ruch czarnych?



ZADANIE NR 26

Który ruch białych prowadzi do zdobycia przez nie hetmana?



ZADANIE NR 27

Jaki jest najlepszy ruch czarnych?



ZADANIE NR 28

Jaki jest najlepszy ruch czarnych?



ZADANIE NR 29

Jaki jest najlepszy ruch czarnych?



ZADANIE NR 30

Który ruch czarnych prowadzi do zdobycia przez nie przewagi materialnej?



KARTA ZADAŃ TESTOWA ● KARTA ZADAŃ TESTOWA ● KARTA ZADAŃ TESTOWA ● KARTA ZADAŃ TESTOWA ●