KONIK SZACHOWY EXTRA

Konkurs Konik Szachowy

Kategoria Pionek

Przed Tobą 30 zadań, po 10 za 3,4 i 5 pkt, brak lub niepoprawna odpowiedź oznacza 0 punktów.
Maksymalny wynik do zdobycia to 120 pkt.

KONIK SZACHOWY EXTRA

ZADANIE NR 1

Który ruch białych prowadzi do zdobycia przez nie wieży?



ZADANIE NR 2

Jaki jest najlepszy ruch czarnych?



ZADANIE NR 3

Który ruch białych prowadzi do zdobycia przez nie co najmniej gońca?



ZADANIE NR 4

Jaki jest najlepszy ruch czarnych?



ZADANIE NR 5

Który ruch białych prowadzi do zdobycia przez nie przewagi materialnej?



ZADANIE NR 6

Który ruch białych prowadzi do zdobycia przez nie hetmana?



KARTA ZADAŃ TESTOWA ● KARTA ZADAŃ TESTOWA ● KARTA ZADAŃ TESTOWA ● KARTA ZADAŃ TESTOWA ● KARTA ZADAŃ TESTOWA ● KARTA ZADAŃ TESTOWA ●

KONIK SZACHOWY EXTRA

PIONEK

Kategoria PIONEK

ZADANIE NR 7

Jaki jest najlepszy ruch białych?



ZADANIE NR 8

Które poświęcenie czarnego prowadzi do jego wygranej?



ZADANIE NR 9

Który ruch białych prowadzi do zdobycia przez nie przewagi materialnej?



ZADANIE NR 10

Jaki jest najlepszy ruch białych?



ZADANIE NR 11

Jaki jest najlepszy ruch czarnych?



ZADANIE NR 12

Jaki jest najlepszy ruch białych?



ZADANIE NR 13

Który ruch białych prowadzi do zdobycia przez nie skoczka?



ZADANIE NR 14

Jaki jest najlepszy ruch białych?



KARTA ZADAŃ TESTOWA ● KARTA ZADAŃ TESTOWA ● KARTA ZADAŃ TESTOWA ● KARTA ZADAŃ TESTOWA ●
KARTA ZADAŃ TESTOWA ● KARTA ZADAŃ TESTOWA ● KARTA ZADAŃ TESTOWA ● KARTA ZADAŃ TESTOWA ●

KONIK SZACHOWY EXTRA

PION

Kategoria PIONEK

ZADANIE NR 15

Jaki jest najlepszy ruch czarnych?



ZADANIE NR 16

Jaki jest najlepszy ruch białych?



ZADANIE NR 17

Przy najlepszej grze obu stron, po jakim ruchu białych, dadzą one mata w 2-im posunięciu?



ZADANIE NR 18

Przy najlepszej grze obu stron, po jakim ruchu białych, dadzą one mata w 3-im posunięciu?



ZADANIE NR 19

Jaki jest najlepszy ruch czarnych?



ZADANIE NR 20

Jak najlepiej czarne powinny zareagować na szacha?



ZADANIE NR 21

Jaki jest najlepszy ruch białych?



ZADANIE NR 22

Jaki jest najlepszy ruch czarnych?



KARTA ZADAŃ TESTOWA ● KARTA ZADAŃ TESTOWA ● KARTA ZADAŃ TESTOWA ● KARTA ZADAŃ TESTOWA ●
KARTA ZADAŃ TESTOWA ● KARTA ZADAŃ TESTOWA ● KARTA ZADAŃ TESTOWA ● KARTA ZADAŃ TESTOWA ●

KONIK SZACHOWY EXTRA

PIONEK

Kategoria PIONEK

ZADANIE NR 23

Jaki jest najlepszy ruch czarnych?



ZADANIE NR 24

Jaki jest najlepszy ruch białych?



ZADANIE NR 25

Które poświęcenie białego prowadzi do jego wygranej?



ZADANIE NR 26

Który ruch czarnych prowadzi do zdobycia przez nie przewagi materialnej?



ZADANIE NR 27

Jaki jest najlepszy ruch czarnych?



ZADANIE NR 28

Jaki jest najlepszy ruch czarnych?



ZADANIE NR 29

Który ruch czarnych prowadzi do zdobycia przez nie przewagi materialnej?



ZADANIE NR 30

Jaki jest najlepszy ruch czarnych?



KARTA ZADAŃ TESTOWA ● KARTA ZADAŃ TESTOWA ● KARTA ZADAŃ TESTOWA ● KARTA ZADAŃ TESTOWA ●
KARTA ZADAŃ TESTOWA ● KARTA ZADAŃ TESTOWA ● KARTA ZADAŃ TESTOWA ● KARTA ZADAŃ TESTOWA ●