KONIK SZACHOWY EXTRA

KONKURS SZACHOWY – OGÓLNOPOLSKI

Konkurs Konik Szachowy

Kategoria Hetman

Przed Tobą 30 zadań, po 10 za 3,4 i 5 pkt, brak lub niepoprawna odpowiedź oznacza 0 punktów.
Maksymalny wynik do zdobycia to 120 pkt.

KONIK SZACHOWY EXTRA

ZADANIE NR 1

Jaki jest najlepszy ruch czarnych?



ZADANIE NR 2

Który ruch białych prowadzi do zdobycia przez nie przewagi materialnej?



ZADANIE NR 3

Jaki jest najlepszy ruch białych?



ZADANIE NR 4

Który ruch białych prowadzi do zdobycia przez nie co najmniej wieży?



ZADANIE NR 5

Który ruch białych prowadzi do zdobycia przez nie hetmana?



ZADANIE NR 6

Jaki jest najlepszy ruch czarnych?



KARTA ZADAŃ TESTOWA ● KARTA ZADAŃ TESTOWA ● KARTA ZADAŃ TESTOWA ●

KONIK SZACHOWY EXTRA

Kategoria HETMAN

ZADANIE NR 7

Który ruch białych prowadzi do zdobycia przez nie co najmniej gońca?



ZADANIE NR 8

Jaki jest najlepszy ruch czarnych?



ZADANIE NR 9

Jak najlepiej czarne powinny zareagować na szacha?



ZADANIE NR 10

Jaki jest najlepszy ruch białych?



ZADANIE NR 11

Przy najlepszej grze obu stron, po jakim ruchu białych, dadzą one mata w 2-im posunięciu?



ZADANIE NR 12

Jaki jest najlepszy ruch białych?



ZADANIE NR 13

Który ruch czarnych prowadzi do zdobycia przez nie co najmniej skoczka?



ZADANIE NR 14

Jaki jest najlepszy ruch czarnych?



KARTA ZADAŃ TESTOWA ● KARTA ZADAŃ TESTOWA ● KARTA ZADAŃ TESTOWA ● KARTA ZADAŃ TESTOWA ●

KONIK SZACHOWY EXTRA

Kategoria HETMAN

ZADANIE NR 15

Jaki jest najlepszy ruch czarnych?



ZADANIE NR 16

Jaki jest najlepszy ruch białych?



ZADANIE NR 17

Jaki jest najlepszy ruch białych?



ZADANIE NR 18

Który ruch białych prowadzi do zdobycia przez nie przewagi materialnej?



ZADANIE NR 19

Które poświęcenie czarnego prowadzi do jego przewagi?



ZADANIE NR 20

Jaki jest najlepszy ruch białych?



ZADANIE NR 21

Jaki jest najlepszy ruch białych?



ZADANIE NR 22

Który ruch czarnych prowadzi do zdobycia przez nie co najmniej gońca?



KARTA ZADAŃ TESTOWA ● KARTA ZADAŃ TESTOWA ● KARTA ZADAŃ TESTOWA ● KARTA ZADAŃ TESTOWA ●
KARTA ZADAŃ TESTOWA ● KARTA ZADAŃ TESTOWA ● KARTA ZADAŃ TESTOWA ● KARTA ZADAŃ TESTOWA ●

KONIK SZACHOWY EXTRA

Kategoria HETMAN

ZADANIE NR 23

Przy najlepszej grze obu stron, po jakim ruchu czarnych, dadzą one mata w 3-im posunięciu?



ZADANIE NR 24

Jaki jest najlepszy ruch czarnych?



ZADANIE NR 25

Jaki jest najlepszy ruch białych?



ZADANIE NR 26

Jaki jest najlepszy ruch czarnych?



ZADANIE NR 27

Jaki jest najlepszy ruch białych?



ZADANIE NR 28

Które poświęcenie czarnego prowadzi do jego wygranej?



ZADANIE NR 29

Który ruch czarnych prowadzi do zdobycia przez nie co najmniej przewagi materialnej?



ZADANIE NR 30

Jaki jest najlepszy ruch czarnych?



KARTA ZADAŃ TESTOWA ● KARTA ZADAŃ TESTOWA ● KARTA ZADAŃ TESTOWA ● KARTA ZADAŃ TESTOWA ●