KONKURS SZACHOWY – OGÓLNOPOLSKI –

Konkurs Konik Szachowy

Kategoria Goniec

Przed Tobą 30 zadań, po 10 za 3,4 i 5 pkt. Na starcie otrzymujesz 30 pkt, za nieprawidłową odpowiedź odejmowana jest ¼ punktów przysługujących za zadanie, brak odpowiedzi oznacza 0 punktów. Maksymalny wynik do zdobycia to 150 pkt.

KONIK SZACHOWY EXTRA

ZADANIE NR 1

Jaki jest najlepszy ruch białych?



ZADANIE NR 2

Który ruch białych prowadzi do zdobycia przez nie skoczka?



ZADANIE NR 3

Który ruch białych prowadzi do zdobycia przez nie przewagi materialnej?



ZADANIE NR 4

Jaki jest najlepszy ruch białych?



ZADANIE NR 5

Przy najlepszej grze obu stron, po jakim ruchu białych, dadzą one mata w 2-im posunięciu?



ZADANIE NR 6

Który ruch czarnych prowadzi do zdobycia przez nie hetmana?



KARTA ZADAŃ TESTOWA ● KARTA ZADAŃ TESTOWA ● KARTA ZADAŃ TESTOWA ● KARTA ZADAŃ TESTOWA ● KARTA ZADAŃ TESTOWA ● KARTA ZADAŃ TESTOWA ● KARTA ZADAŃ TESTOWA ● KARTA ZADAŃ TESTOWA ●

KONIK SZACHOWY EXTRA

Kategoria GONIEC

ZADANIE NR 7

Jaki jest najlepszy ruch czarnych?



ZADANIE NR 8

Który ruch białych prowadzi do zdobycia przez nie co najmniej wieży?



ZADANIE NR 9

Które poświęcenie białego prowadzi do jego wygranej?



ZADANIE NR 10

Jaki jest najlepszy ruch białych?



ZADANIE NR 11

Jaki jest najlepszy ruch czarnych?



ZADANIE NR 12

Który ruch białych prowadzi do zdobycia przez nie przewagi materialnej?



ZADANIE NR 13

Jaki jest najlepszy ruch białych?



ZADANIE NR 14

Który ruch czarnych prowadzi do zdobycia przez nie co najmniej gońca?



KARTA ZADAŃ TESTOWA ● KARTA ZADAŃ TESTOWA ● KARTA ZADAŃ TESTOWA ● KARTA ZADAŃ TESTOWA ●

KONIK SZACHOWY EXTRA



Kategoria GONIEC

ZADANIE NR 15

Który ruch czarnych prowadzi do zdobycia przez nie co najmniej gońca?



ZADANIE NR 16

Jaki jest najlepszy ruch białych?



ZADANIE NR 17

Jak najlepiej białe powinny zareagować na szacha?



ZADANIE NR 18

Jaki jest najlepszy ruch białych?



ZADANIE NR 19

Jaki jest najlepszy ruch czarnych?



ZADANIE NR 20

Który ruch białych prowadzi do zdobycia przez nie co najmniej wieży?



ZADANIE NR 21

Który ruch czarnych prowadzi do zdobycia przez nie hetmana?



ZADANIE NR 22

Jaki jest najlepszy ruch czarnych?



KARTA ZADAŃ TESTOWA ● KARTA ZADAŃ TESTOWA ● KARTA ZADAŃ TESTOWA ● KARTA ZADAŃ TESTOWA ●
KARTA ZADAŃ TESTOWA ● KARTA ZADAŃ TESTOWA ● KARTA ZADAŃ TESTOWA ● KARTA ZADAŃ TESTOWA ●

KONIK SZACHOWY EXTRA



Kategoria GONIEC

ZADANIE NR 23

Jaki jest najlepszy ruch czarnych?



ZADANIE NR 24

Jaki jest najlepszy ruch czarnych?



ZADANIE NR 25

Jaki jest najlepszy ruch białych?



ZADANIE NR 26

Przy najlepszej grze obu stron, po jakim ruchu czarnych, dadzą one mata w 3-im posunięciu?



ZADANIE NR 27

Jaki jest najlepszy ruch czarnych?



ZADANIE NR 28

Jaki jest najlepszy ruch czarnych?



ZADANIE NR 29

Jaki jest najlepszy ruch czarnych?



ZADANIE NR 30

Jaki jest najlepszy ruch białych?



KARTA ZADAŃ TESTOWA ● KARTA ZADAŃ TESTOWA ● KARTA ZADAŃ TESTOWA ● KARTA ZADAŃ TESTOWA ●
KARTA ZADAŃ TESTOWA ● KARTA ZADAŃ TESTOWA ● KARTA ZADAŃ TESTOWA ● KARTA ZADAŃ TESTOWA ●